Une cada dibujo con su fracción

Traza una línea del dibujo a la fracción que le corresponde

Nombre: _____ Fecha: _____







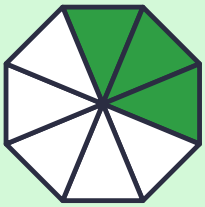

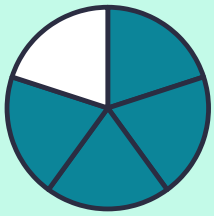



$\frac{3}{8}$

$\frac{1}{4}$

$\frac{3}{10}$

$\frac{2}{3}$

$\frac{4}{5}$

$\frac{5}{6}$