# Fracciones equivalentes

Colorea la segunda barra hasta la misma línea y completa

Nombre: _____ Fecha: _____

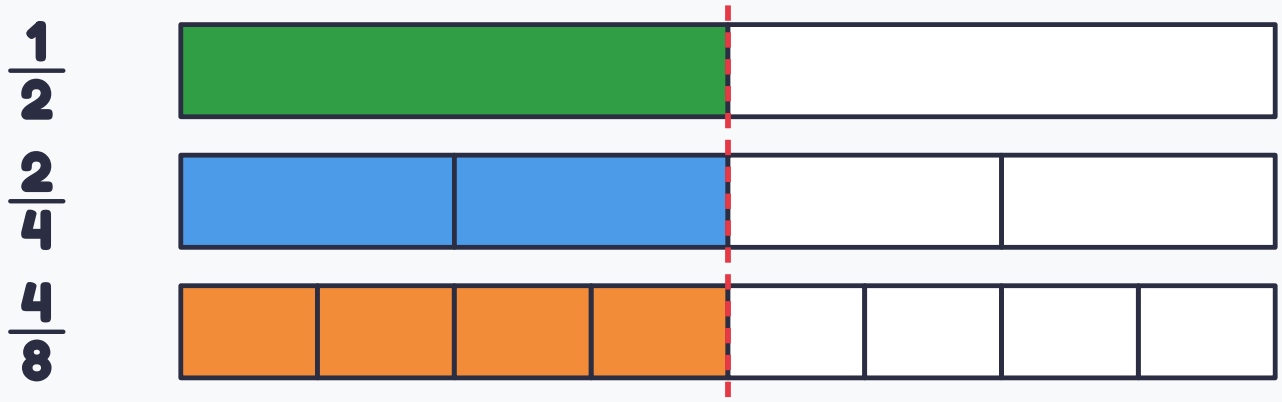


Un medio, dos cuartos y cuatro octavos ocupan lo mismo: son equivalentes.

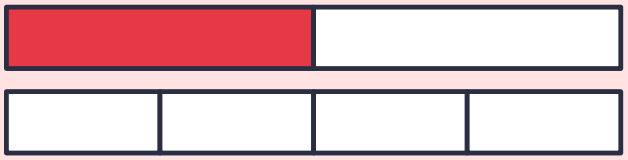

$\frac{1}{2} = \frac{\square}{4}$



$\frac{1}{3} = \frac{\square}{6}$



$\frac{3}{4} = \frac{\square}{8}$

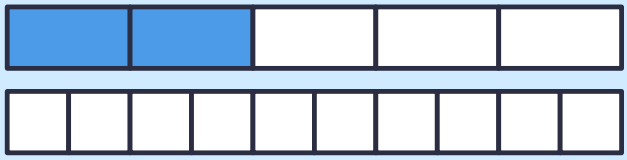

$\frac{2}{5} = \frac{\square}{10}$

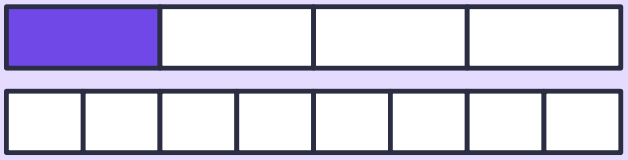

$\frac{1}{4} = \frac{\square}{8}$

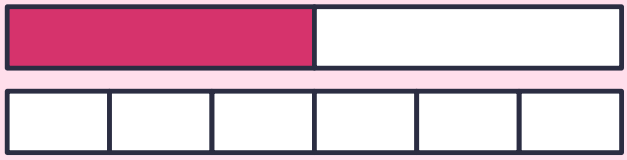

$\frac{1}{2} = \frac{\square}{6}$

imprimir.aprendidelavida.com · uso personal y en el aula