Fracción de una cantidad

Haz grupos iguales, encierra los que pide y cuenta

Nombre: _____ Fecha: _____

$\frac{1}{2}$ de 8 manzanas



Respuesta: _____ manzanas

$\frac{1}{3}$ de 9 fresas



Respuesta: _____ fresas

$\frac{1}{4}$ de 12 huevos



Respuesta: _____ huevos

$\frac{2}{3}$ de 6 limones

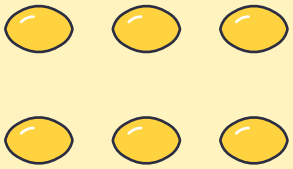

Respuesta: _____ limones

$\frac{3}{4}$ de 8 estrellas



Respuesta: _____ estrellas

$\frac{2}{5}$ de 10 corazones



Respuesta: _____ corazones