Problemas de fracciones

Lee con calma, dibuja si lo necesitas y escribe la respuesta

Nombre: _____ Fecha: _____



1. Ana partió una pizza en 8 rebanadas iguales y se comió 3. ¿Qué fracción de la pizza se comió? ¿Qué fracción quedó?

Operación: _____ Respuesta: _____



2. Una barra de chocolate tiene 12 cuadritos. Luis le regaló un cuarto de la barra a su hermana. ¿Cuántos cuadritos le regaló?

Operación: _____ Respuesta: _____

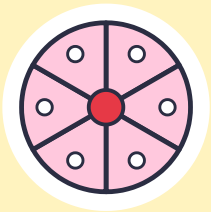

3. Mamá cortó un pastel en 6 partes iguales. En la cena se comieron 4 partes. ¿Qué fracción del pastel sobró?

Operación: _____ Respuesta: _____



4. En una caja hay 20 lápices y tres cuartos de ellos son de color. ¿Cuántos lápices de color hay en la caja?

Operación: _____ Respuesta: _____

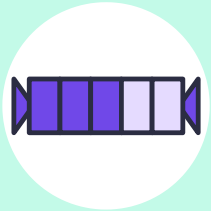

5. Sofía tenía tres quintos de una cinta y usó un quinto para hacer un moño. ¿Qué fracción de la cinta le queda?

Operación: _____ Respuesta: _____



6. Para una limonada se usan dos cuartos de litro de agua y un cuarto de litro de jugo de limón. ¿Cuánto líquido hay en total?

Operación: _____ Respuesta: _____