Clasifica los triángulos

Escribe cómo es cada triángulo según sus lados y según sus ángulos

Por sus lados



Equilátero



Isósceles



Escaleno

Por sus ángulos



Acutángulo



Rectángulo



Obtusángulo

1

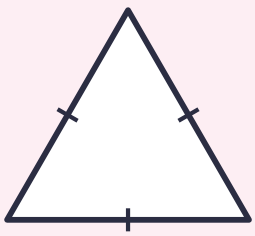

Lados: _____

Ángulos: _____

2

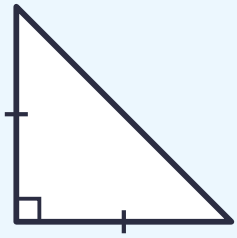

Lados: _____

Ángulos: _____

3



Lados: _____

Ángulos: _____

4

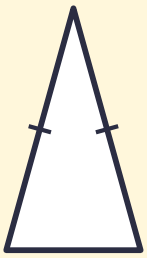

Lados: _____

Ángulos: _____

5

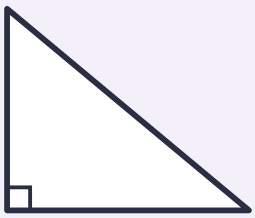

Lados: _____

Ángulos: _____

6



Lados: _____

Ángulos: _____

7



Lados: _____

Ángulos: _____

8

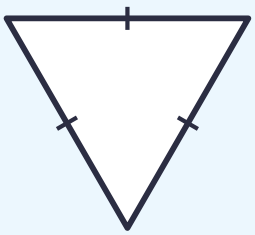

Lados: _____

Ángulos: _____