Mosaico de fracciones

Calcula cuántos cuadros lleva cada color y píntalos a tu gusto

Nombre: _____ Fecha: _____

- $\frac{1}{2}$ en azul
- $\frac{1}{4}$ en amarillo
- $\frac{1}{4}$ en verde

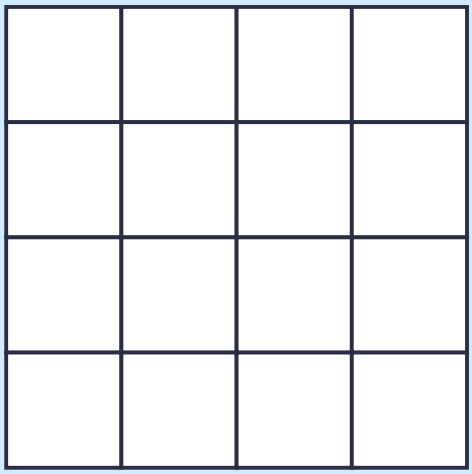

- $\frac{1}{3}$ en rojo
- $\frac{1}{4}$ en naranja
- $\frac{1}{6}$ en morado

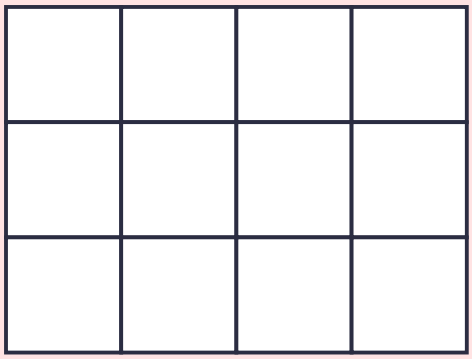

¿Qué fracción quedó en blanco? _____

- $\frac{2}{5}$ en verde
- $\frac{1}{4}$ en azul
- $\frac{1}{10}$ en rosa

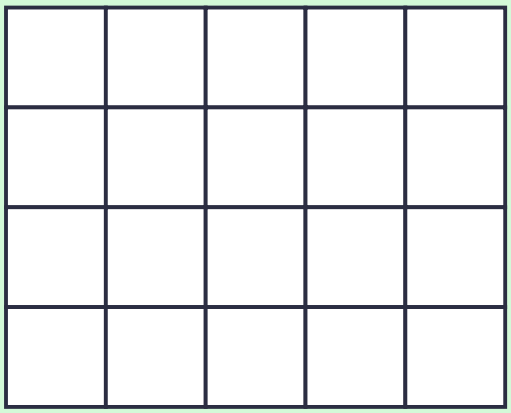

¿Qué fracción quedó en blanco? _____

- $\frac{1}{2}$ en naranja
- $\frac{1}{3}$ en turquesa
- $\frac{1}{6}$ en amarillo

