# Sumas con frutas

Cuenta cada grupo, escribe los números y el resultado

Nombre: _____ Fecha: _____





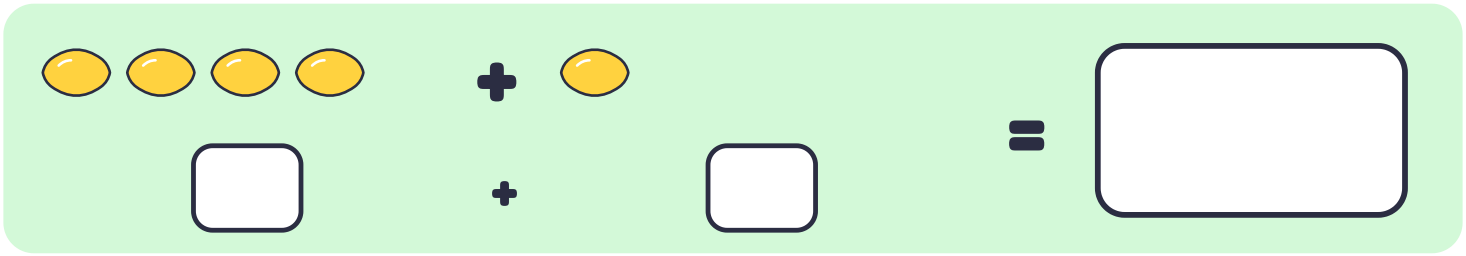

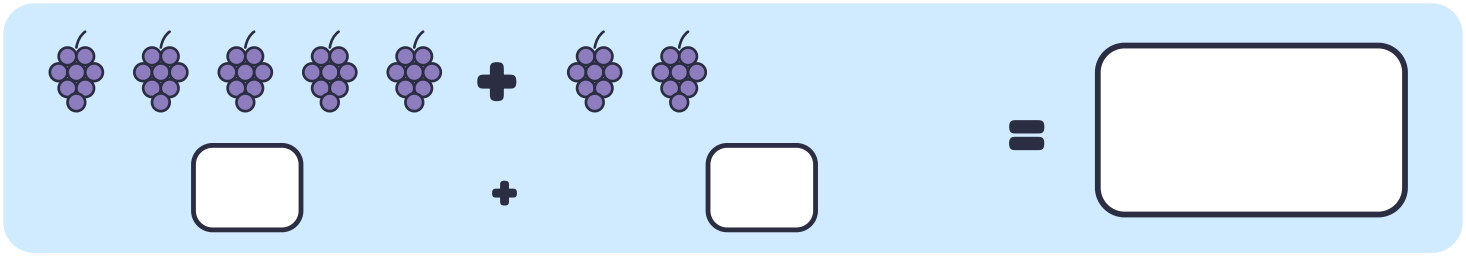

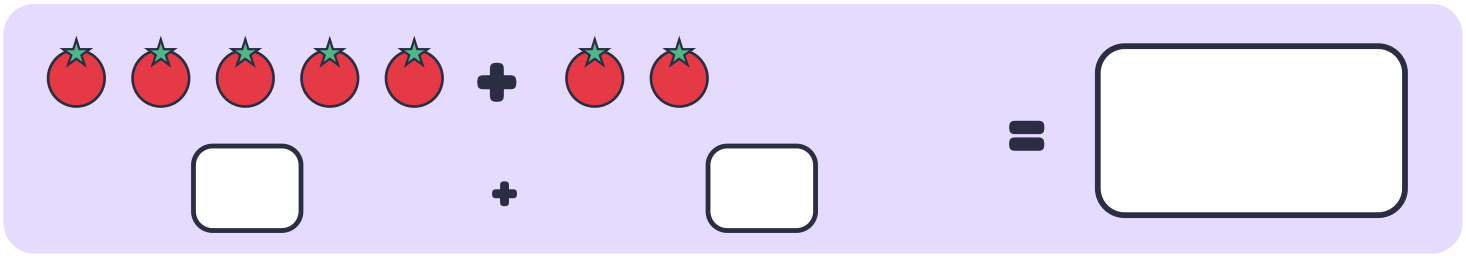



# Restas tachando dibujos

Los animalitos tachados se fueron a casa: ¿cuántos quedan?

Nombre: _____ Fecha: _____



5 – 3 = ☐



5 – 2 = ☐



7 – 3 = ☐



8 – 4 = ☐



8 – 5 = ☐



4 – 3 = ☐

# Sumas con dados

Cuenta los puntos de los dos dados y escribe cuántos son en total

Nombre: _____ Fecha: _____

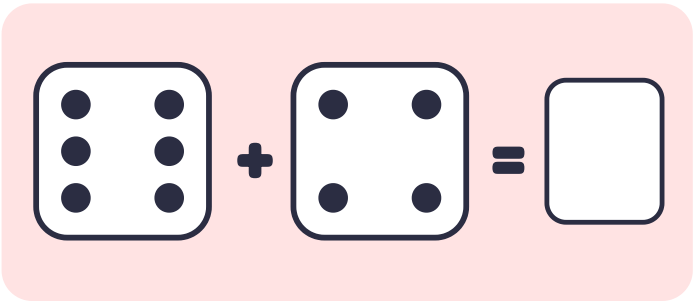

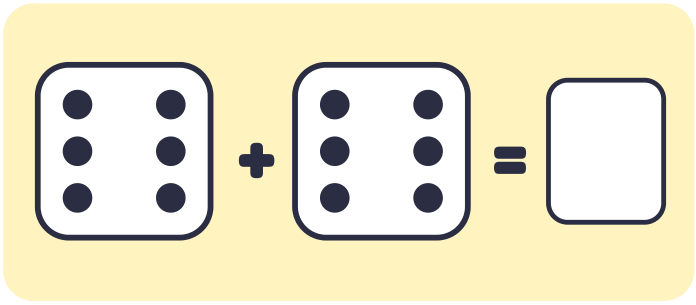

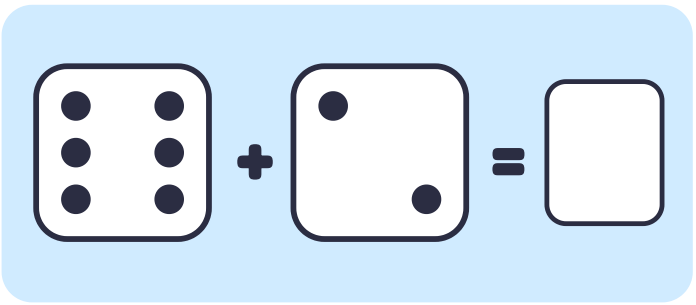

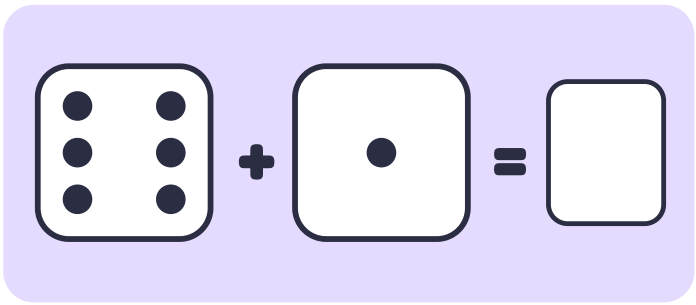

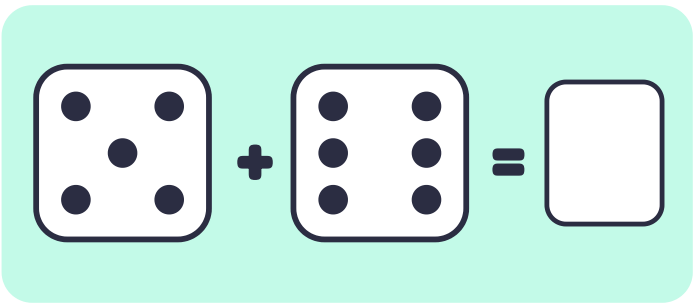

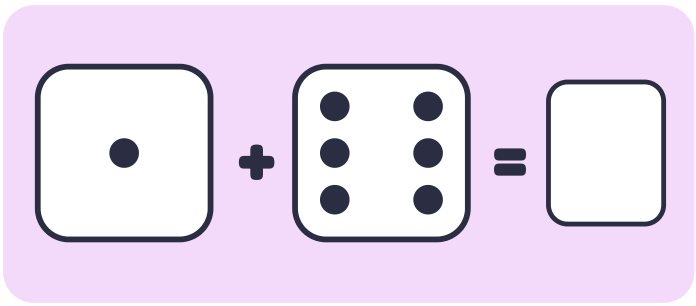



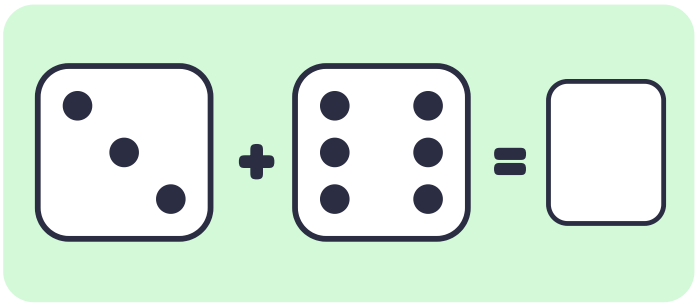

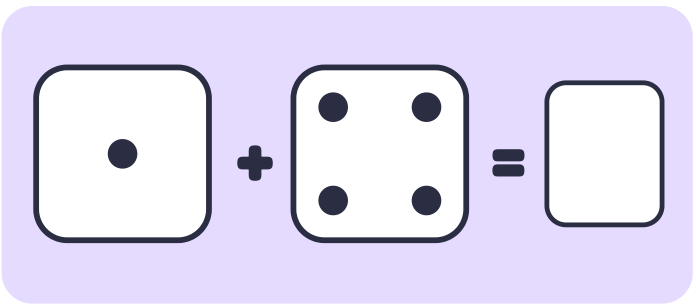

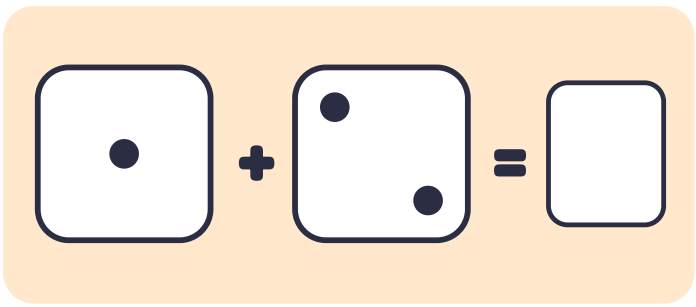

# Sumas con diez marcos

Cuenta los puntos rojos y los azules, y completa la suma

Nombre: _____ Fecha: _____

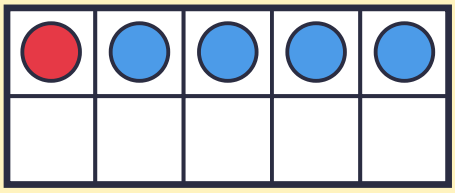

☐ + ☐ = ☐

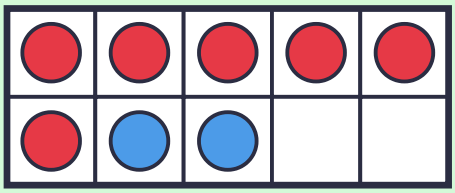

☐ + ☐ = ☐

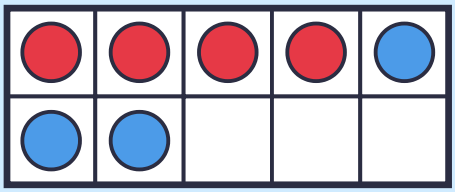

☐ + ☐ = ☐

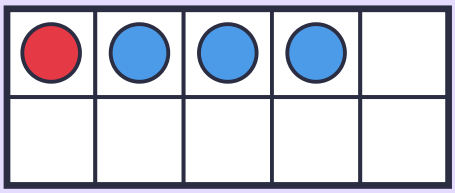

☐ + ☐ = ☐

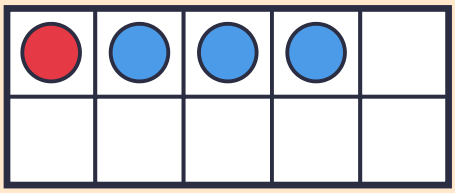

☐ + ☐ = ☐

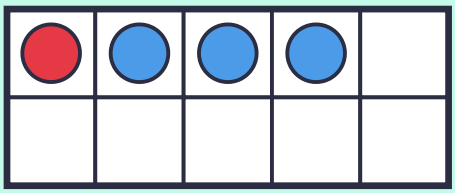

☐ + ☐ = ☐

# Casitas de números

El techo dice el total: escribe en cada piso el número que falta

Nombre: _____ Fecha: _____




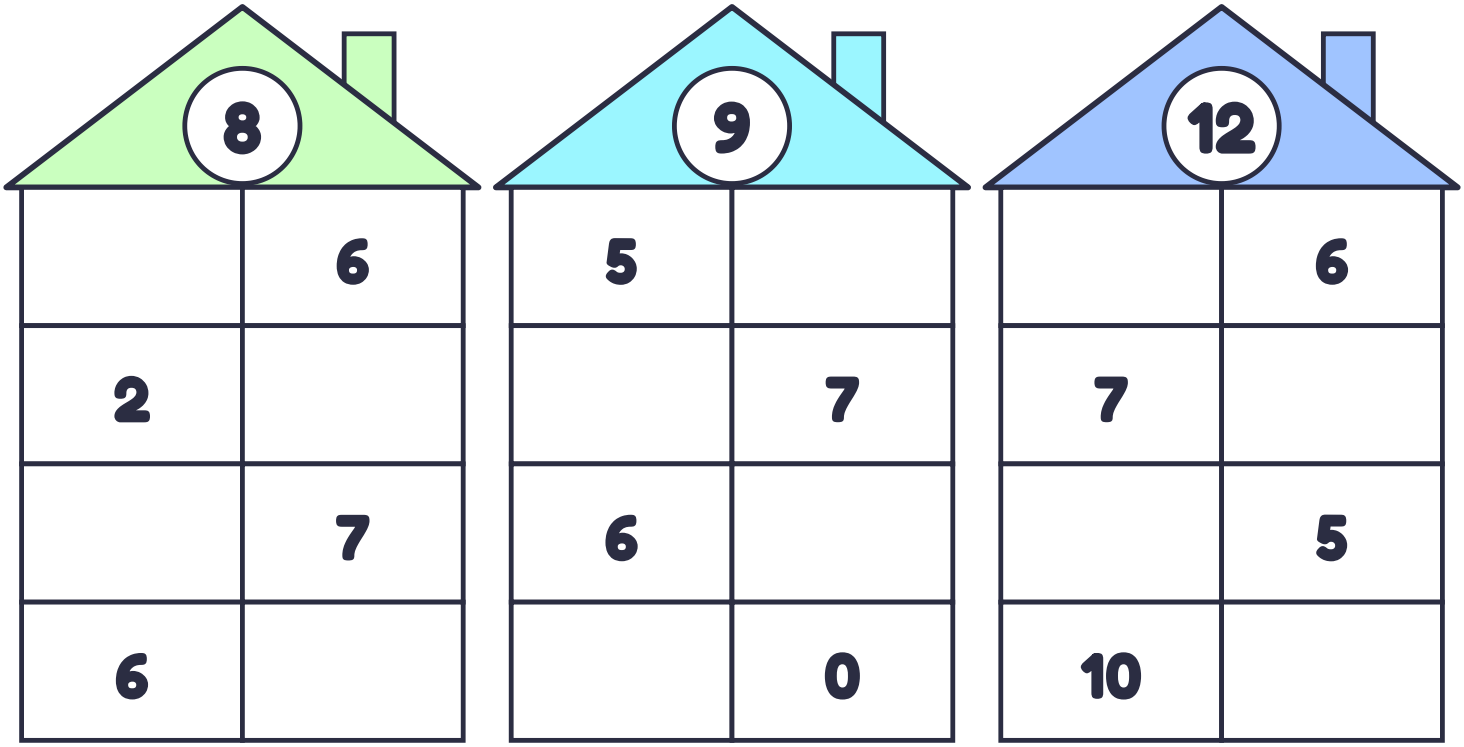

# Sumas en la recta numérica

Empieza en el primer número y da saltos hacia adelante

Nombre: _____ Fecha: _____

**3 + 4 =** 7 Ejemplo

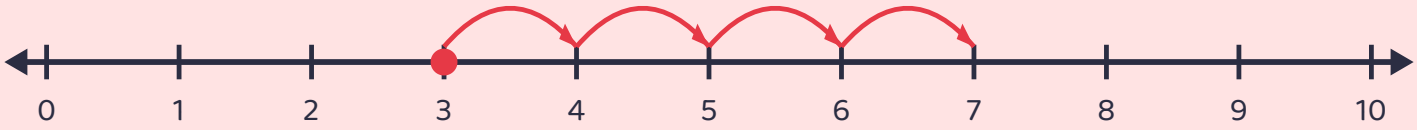


**8 + 1 =** ☐

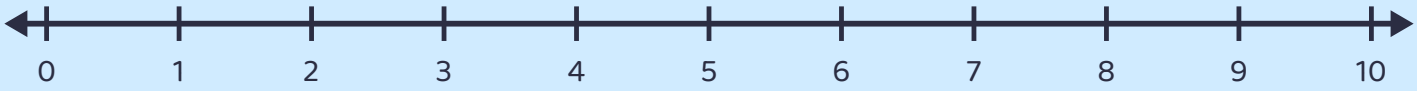


**8 + 1 =** ☐

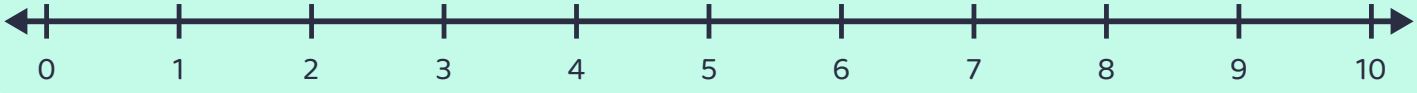


**5 + 1 =** ☐

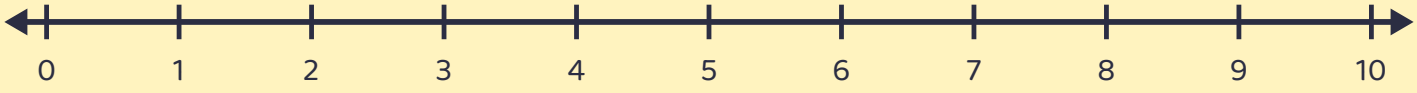


**4 + 4 =** ☐




**6 + 4 =** ☐




imprimir.aprendidelavida.com · uso personal y en el aula

# Restas en la recta numérica

Empieza en el primer número y da saltos hacia atrás

Nombre: _____ Fecha: _____

**13 – 5 =** 8 Ejemplo

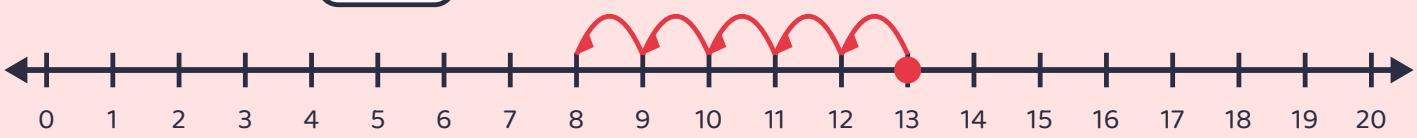


**13 – 8 =** ☐

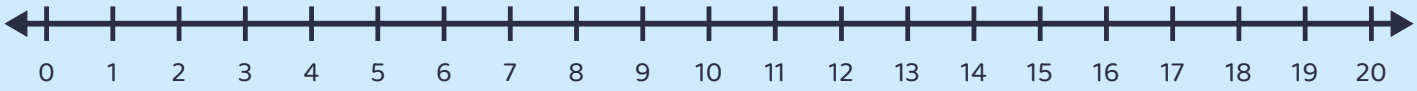


**17 – 6 =** ☐

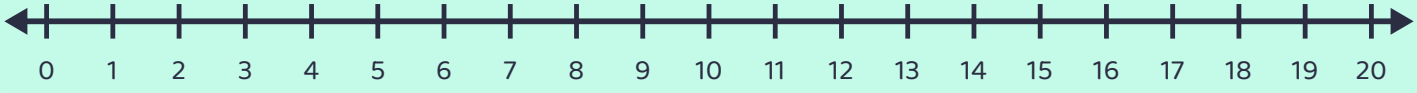


**12 – 8 =** ☐

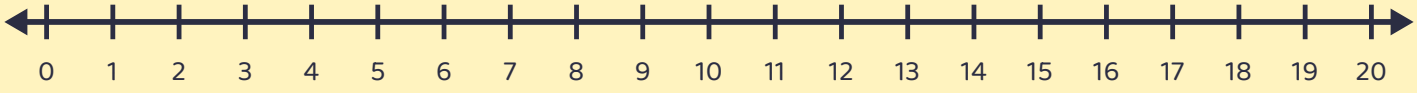


**18 – 3 =** ☐




**14 – 6 =** ☐




imprimir.aprendidelavida.com · uso personal y en el aula

# Sumas hasta 10 en globos

Resuelve la suma de cada globo y escribe el resultado en su cuadro

Nombre: _____ Fecha: _____




imprimir.aprendidelavida.com · uso personal y en el aula

# Restas hasta 10 en peces

Resuelve la resta que lleva cada pez y escribe el resultado

Nombre: _____ Fecha: _____



# Sumas hasta 20

30 sumas de un solo vistazo: marca la estrella cuando termines cada una

Nombre: _____ Fecha: _____

| | | |
|---|---|---|
| 8 + 11 = | 5 + 8 = | 9 + 6 = |
| 12 + 6 = | 13 + 2 = | 10 + 8 = |
| 10 + 7 = | 3 + 4 = | 4 + 9 = |
| 12 + 2 = | 11 + 5 = | 6 + 6 = |
| 7 + 7 = | 10 + 3 = | 8 + 10 = |
| 14 + 5 = | 6 + 12 = | 4 + 5 = |
| 6 + 8 = | 9 + 5 = | 5 + 15 = |
| 3 + 17 = | 5 + 4 = | 6 + 4 = |
| 14 + 4 = | 4 + 2 = | 11 + 6 = |
| 13 + 3 = | 2 + 16 = | 8 + 5 = |

imprimir.aprendidelavida.com · uso personal y en el aula

# Restas hasta 20

30 restas con números del 1 al 20, sin resultados negativos

Nombre: _____ Fecha: _____

| | | |
|---|---|---|
| 1 11 – 7 = ☐ | 2 15 – 5 = ☐ | 3 14 – 8 = ☐ |
| 4 17 – 14 = ☐ | 5 10 – 5 = ☐ | 6 19 – 15 = ☐ |
| 7 16 – 5 = ☐ | 8 10 – 9 = ☐ | 9 19 – 10 = ☐ |
| 10 14 – 5 = ☐ | 11 20 – 13 = ☐ | 12 15 – 14 = ☐ |
| 13 8 – 4 = ☐ | 14 18 – 9 = ☐ | 15 17 – 9 = ☐ |
| 16 14 – 3 = ☐ | 17 14 – 10 = ☐ | 18 9 – 4 = ☐ |
| 19 13 – 5 = ☐ | 20 16 – 14 = ☐ | 21 8 – 7 = ☐ |
| 22 8 – 5 = ☐ | 23 18 – 11 = ☐ | 24 19 – 17 = ☐ |
| 25 15 – 9 = ☐ | 26 16 – 3 = ☐ | 27 19 – 6 = ☐ |
| 28 20 – 2 = ☐ | 29 18 – 16 = ☐ | 30 16 – 11 = ☐ |

imprimir.aprendidelavida.com · uso personal y en el aula

# Sumas y restas mezcladas

Fíjate bien en el signo antes de resolver: verde suma y rojo resta

Nombre: _____ Fecha: _____

| | |
|---|---|
| 11 + 5 = | 18 − 6 = |
| 9 + 8 = | 10 + 4 = |
| 19 − 9 = | 4 + 6 = |
| 16 − 14 = | 13 − 1 = |
| 11 + 4 = | 11 + 2 = |
| 5 − 1 = | 13 − 11 = |
| 5 − 3 = | 18 − 17 = |
| 14 − 9 = | 9 + 11 = |
| 8 − 4 = | 12 − 10 = |
| 10 − 7 = | 10 + 3 = |
| 15 − 12 = | 7 − 5 = |
| 6 + 2 = | 8 − 8 = |

# Sumas de dos cifras sin llevar

Suma primero las unidades y después las decenas

Nombre: _____ Fecha: _____

| | | | | |
|---|---|---|---|---|
| 45 + 12 = | 54 + 40 = | 65 + 13 = | 60 + 34 = | 12 + 14 = |
| 67 + 32 = | 14 + 82 = | 20 + 76 = | 22 + 76 = | 35 + 23 = |
| 40 + 18 = | 32 + 40 = | 41 + 11 = | 13 + 62 = | 31 + 42 = |
| 35 + 40 = | 23 + 44 = | 48 + 41 = | 10 + 84 = | 34 + 63 = |

# Restas de dos cifras sin pedir prestado

Resta primero las unidades y después las decenas

Nombre: _____ Fecha: _____

| | | | | |
|---|---|---|---|---|
| 95 − 41 = | 96 − 76 = | 57 − 53 = | 23 − 21 = | 69 − 60 = |
| 96 − 65 = | 89 − 68 = | 22 − 20 = | 94 − 92 = | 53 − 20 = |
| 77 − 27 = | 53 − 21 = | 82 − 70 = | 56 − 23 = | 27 − 10 = |
| 79 − 17 = | 89 − 72 = | 14 − 11 = | 44 − 14 = | 67 − 66 = |

# Sumas de dos cifras llevando

Si las unidades pasan de 9, anota la que llevas en el cuadrito de arriba

Nombre: _____ Fecha: _____

| | | | |
|---|---|---|---|
| □<br>46<br>+35<br>□□ | □<br>29<br>+15<br>□□ | □<br>33<br>+28<br>□□ | □<br>49<br>+34<br>□□ |
| □<br>27<br>+16<br>□□ | □<br>32<br>+49<br>□□ | □<br>29<br>+23<br>□□ | □<br>14<br>+28<br>□□ |
| □<br>11<br>+59<br>□□ | □<br>21<br>+39<br>□□ | □<br>27<br>+58<br>□□ | □<br>39<br>+52<br>□□ |
| □<br>49<br>+47<br>□□ | □<br>19<br>+67<br>□□ | □<br>49<br>+19<br>□□ | □<br>43<br>+19<br>□□ |

# Restas de dos cifras pidiendo prestado

Si arriba hay menos unidades, pide una decena prestada y anótala arriba

Nombre: _____ Fecha: _____

| | | | |
|---|---|---|---|
| □<br>86<br>−79<br>□□ | □<br>92<br>−25<br>□□ | □<br>83<br>−19<br>□□ | □<br>67<br>−18<br>□□ |
| □<br>75<br>−69<br>□□ | □<br>50<br>−46<br>□□ | □<br>71<br>−62<br>□□ | □<br>23<br>−14<br>□□ |
| □<br>42<br>−15<br>□□ | □<br>72<br>−14<br>□□ | □<br>74<br>−67<br>□□ | □<br>70<br>−38<br>□□ |
| □<br>80<br>−73<br>□□ | □<br>44<br>−37<br>□□ | □<br>83<br>−17<br>□□ | □<br>82<br>−43<br>□□ |

# Sumas de tres cifras

Unidades, decenas y centenas: no olvides lo que llevas

Nombre: _____ Fecha: _____

| | | | |
|---|---|---|---|
| 345 + 192 = ___ | 268 + 207 = ___ | 262 + 385 = ___ | 516 + 459 = ___ |
| 220 + 466 = ___ | 679 + 269 = ___ | 457 + 333 = ___ | 771 + 116 = ___ |
| 231 + 599 = ___ | 483 + 322 = ___ | 168 + 183 = ___ | 546 + 297 = ___ |
| 524 + 103 = ___ | 263 + 460 = ___ | 535 + 427 = ___ | 286 + 403 = ___ |

# Restas de tres cifras

Resta columna por columna y pide prestado cuando haga falta

Nombre: _____ Fecha: _____

| | | | |
|---|---|---|---|
| 947 − 286 = ___ | 619 − 201 = ___ | 670 − 400 = ___ | 639 − 126 = ___ |
| 922 − 605 = ___ | 829 − 249 = ___ | 897 − 626 = ___ | 877 − 235 = ___ |
| 686 − 389 = ___ | 958 − 468 = ___ | 765 − 544 = ___ | 494 − 361 = ___ |
| 984 − 763 = ___ | 307 − 167 = ___ | 669 − 505 = ___ | 523 − 269 = ___ |

# Completa el número que falta

Piensa qué número va en el cuadro para que la operación sea correcta

Nombre: _____ Fecha: _____

| | | |
|---|---|---|
| 5 + □ = 8 | □ + 5 = 17 | 16 − □ = 3 |
| □ − 13 = 1 | 7 + □ = 9 | □ + 14 = 16 |
| 16 − □ = 12 | □ − 3 = 5 | 5 + □ = 9 |
| □ + 10 = 18 | 6 − □ = 2 | □ − 9 = 8 |
| 7 + □ = 8 | □ + 6 = 17 | 11 − □ = 7 |
| □ − 4 = 4 | 1 + □ = 18 | □ + 8 = 17 |
| 12 − □ = 10 | □ − 2 = 4 | 4 + □ = 12 |
| □ + 8 = 15 | 14 − □ = 4 | □ − 9 = 6 |
| 3 + □ = 16 | □ + 1 = 3 | 8 − □ = 2 |
| □ − 2 = 5 | 10 + □ = 13 | □ + 8 = 14 |

# Pirámides de sumas

Cada ladrillo es la suma de los dos ladrillos que tiene debajo

Nombre: _____ Fecha: _____

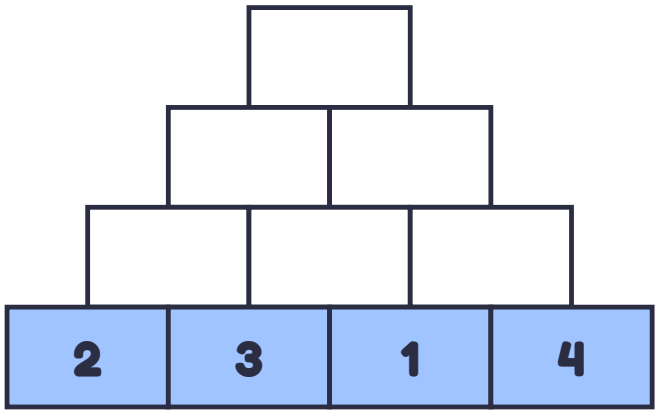


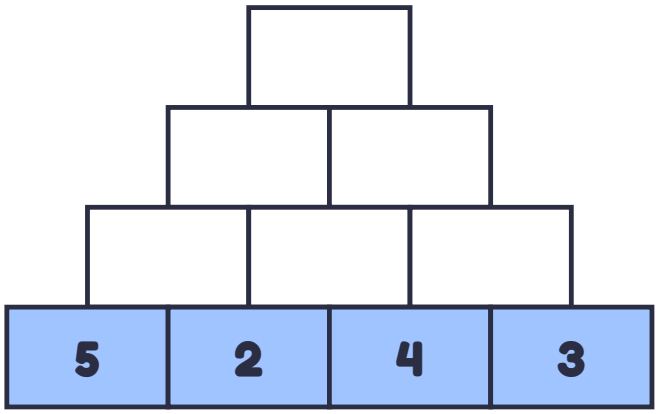


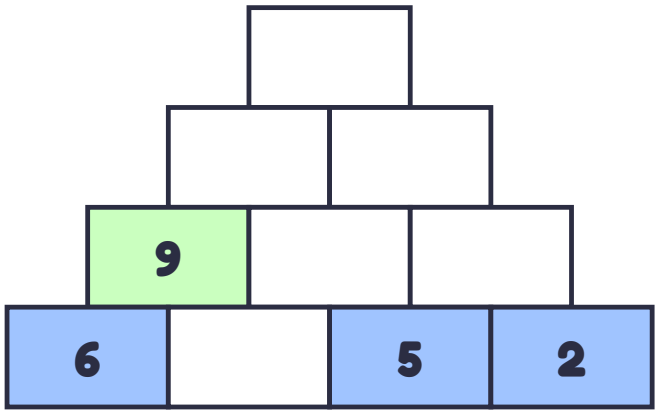


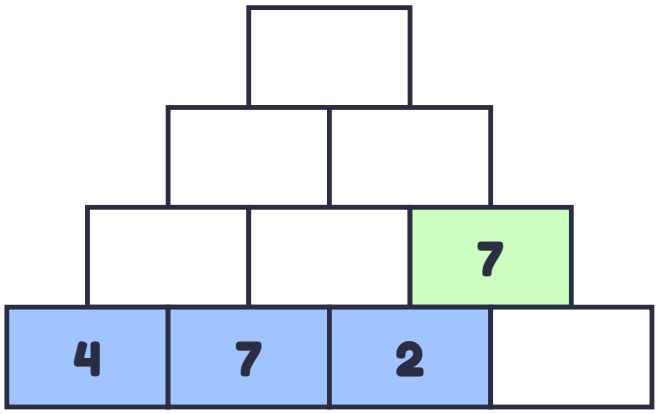


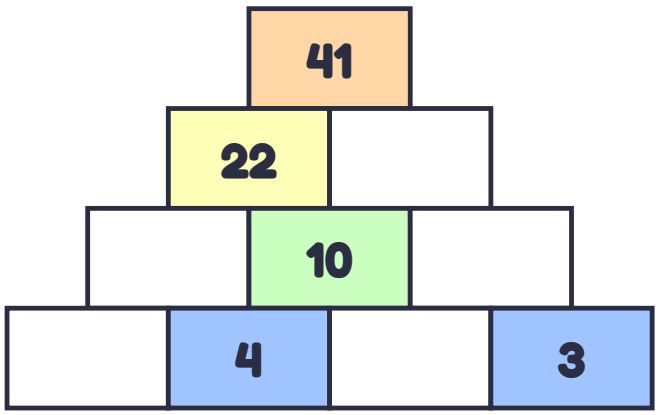


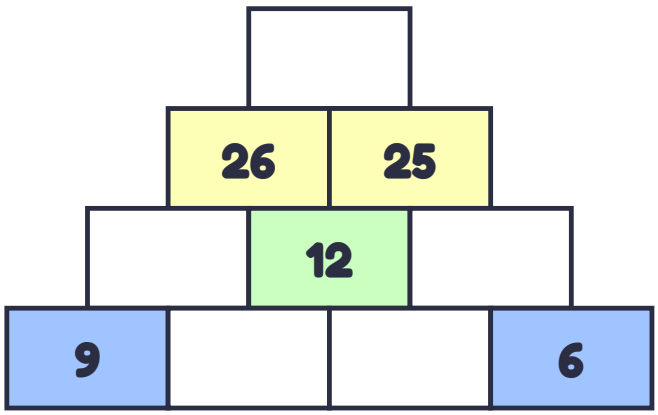


Así funciona:

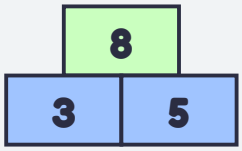


3 + 5 = 8

# Colorea según el resultado

Resuelve cada cuadro y coloréalo con el color de su resultado

Nombre: _____ Fecha: _____

| | | | | | | | | | | | |
|---|---|---|---|---|---|---|---|---|---|---|---|
| 6+2 | 10−2 | 12−5 | 5+2 | 6+1 | 6+1 | 8−1 | 5+2 | 3+4 | 2+5 | 1+6 | 3+4 |
| 13−5 | 5+3 | 0+7 | 5+2 | 5+2 | 8−5 | 2+5 | 8−1 | 11−4 | 12−5 | 2+5 | 6+1 |
| 1+6 | 9−2 | 3+4 | 8−1 | 10−3 | 3+0 | 12−3 | 12−5 | 6+1 | 4+3 | 11−4 | 0+7 |
| 7+0 | 9−2 | 9−2 | 11−4 | 8−1 | 4−1 | 8+1 | 13−4 | 4+3 | 13−6 | 5+2 | 4+3 |
| 1+6 | 4+3 | 6+1 | 13−6 | 3+4 | 4−1 | 3+6 | 12−3 | 8+1 | 12−5 | 4+3 | 13−6 |
| 6+1 | 10−3 | 3+4 | 7+0 | 9−2 | 8−5 | 3+6 | 1+8 | 4+5 | 11−2 | 2+5 | 11−4 |
| 1+6 | 10−3 | 10−3 | 10−3 | 8−1 | 4−1 | 9+0 | 10−1 | 0+9 | 8+1 | 15−6 | 3+4 |
| 11−4 | 8−1 | 4+3 | 11−4 | 11−4 | 1+2 | 7+0 | 5+2 | 6+1 | 2+5 | 13−6 | 11−4 |
| 0+4 | 10−6 | 10−6 | 0+4 | 0+4 | 1+3 | 9−5 | 3+1 | 4+0 | 7−3 | 9−5 | 10−6 |
| 8−1 | 7−3 | 0+4 | 0+4 | 0+4 | 1+3 | 7−3 | 9−5 | 1+3 | 2+2 | 0+4 | 9−2 |
| 8−2 | 10−4 | 12−6 | 4+0 | 3+1 | 4+0 | 3+1 | 3+1 | 5−1 | 0+6 | 7−1 | 12−6 |
| 12−6 | 8−2 | 7−1 | 5+1 | 0+6 | 12−6 | 7−1 | 6+0 | 4+2 | 0+6 | 12−6 | 11−5 |

**3 = Café**

**4 = Rojo**

**6 = Azul**

**7 = Celeste**

**8 = Naranja**

**9 = Amarillo**

# Camino de resultados

Colorea las casillas que dan 10 y descubre el camino de la salida a la meta

Nombre: _____ Fecha: _____

**Salida ↓**

| | | | | | |
|---|---|---|---|---|---|
| 15 – 5 | 12 – 2 | 4 + 9 | 14 – 3 | 6 + 1 | 15 – 7 |
| 16 – 3 | 15 – 5 | 2 + 9 | 14 – 2 | 18 – 8 | 16 – 6 |
| 11 – 1 | 16 – 6 | 3 + 8 | 2 + 11 | 1 + 9 | 8 + 2 |
| 5 + 5 | 4 + 5 | 4 + 6 | 18 – 8 | 6 + 4 | 12 – 2 |
| 11 – 1 | 2 + 8 | 12 – 2 | 12 + 1 | 16 – 4 | 17 – 7 |
| 16 – 4 | 2 + 6 | 6 + 7 | 18 – 7 | 7 + 2 | 12 – 2 |

**Meta ↑**

¿Cuántas casillas coloreaste?

# Ruedas de sumas y restas

Haz la operación del centro con cada número y escribe el resultado afuera

Nombre: _____ Fecha: _____

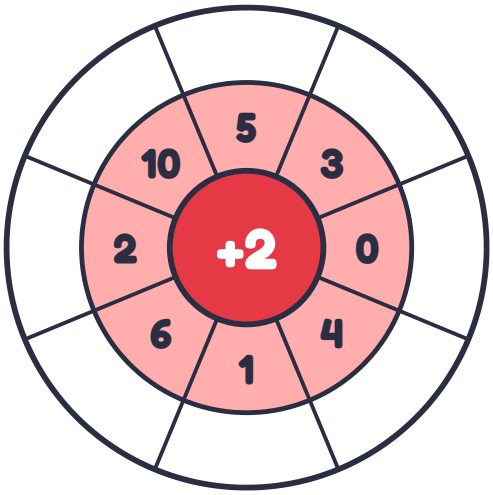


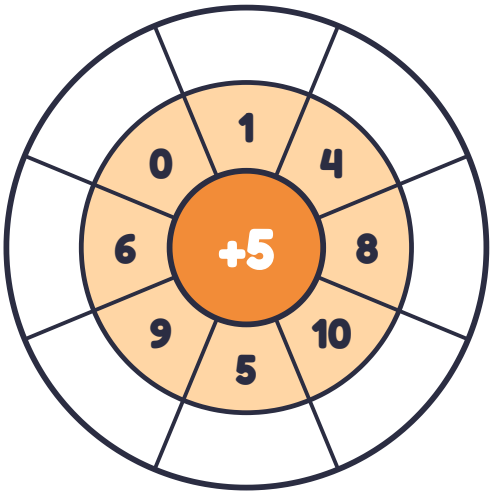


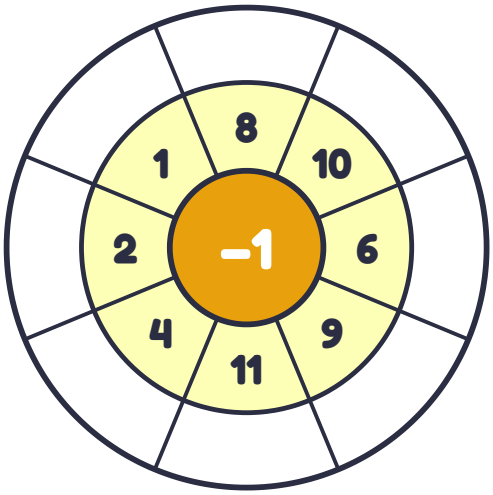


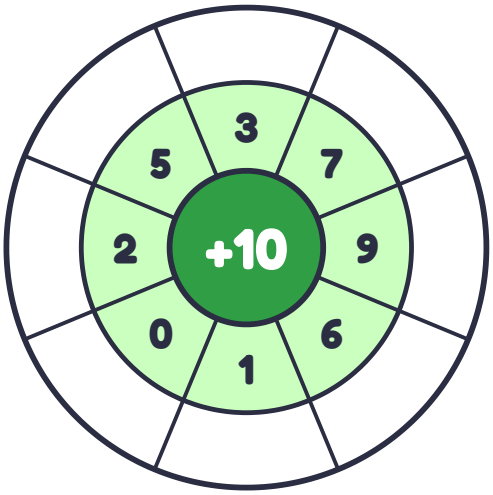


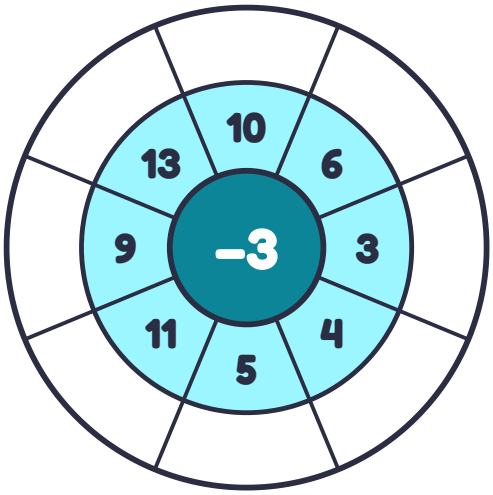


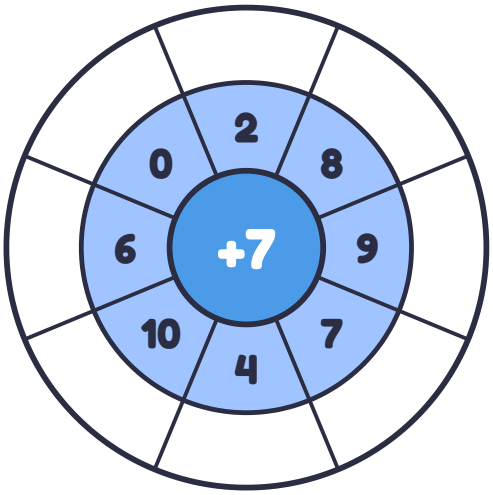

# Problemas de sumas y restas

Lee con calma, piensa si hay que sumar o restar y escribe la operación

Nombre: _____ Fecha: _____

**1** Sofía tiene 8 manzanas y su abuela le regala 5 más.
¿Cuántas manzanas tiene ahora?



Operación: _____ Resultado: _____

**2** En el jardín había 15 conejos y 6 se fueron a su madriguera.
¿Cuántos conejos se quedaron en el jardín?



Operación: _____ Resultado: _____

**3** Mateo leyó 23 páginas el lunes y 14 páginas el martes.
¿Cuántas páginas leyó en total?



Operación: _____ Resultado: _____

**4** En la fiesta había 48 globos y se reventaron 25.
¿Cuántos globos quedan?



Operación: _____ Resultado: _____

**5** Lucía tenía 36 semillas, sembró 17 y luego compró 10 más.
¿Cuántas semillas tiene ahora?



Operación: _____ Resultado: _____

**6** En el acuario hay 27 peces amarillos y 18 peces naranjas.
¿Cuántos peces hay en total? ¿Cuántos amarillos hay de más?



Operación: _____ Resultado: _____

# Tabla de sumas del 0 al 10

Completa la tabla: busca el número de la fila y súmale el de la columna

Nombre: _____ Fecha: _____

| + | 0 | 1 | 2 | 3 | 4 | 5 | 6 | 7 | 8 | 9 | 10 |
|---|---|---|---|---|---|---|---|---|---|---|---|
| 0 | 0 | 1 | 2 | 3 | 4 | 5 | 6 | 7 | 8 | 9 | 10 |
| 1 | 1 | | | | | | | | | | |
| 2 | 2 | | | | | | | | | | |
| 3 | 3 | | | | | | | | | | |
| 4 | 4 | | | | | | | | | | |
| 5 | 5 | | | | | | | | | | |
| 6 | 6 | | | | | | | | | | |
| 7 | 7 | | | | | | | | | | |
| 8 | 8 | | | | | | | | | | |
| 9 | 9 | | | | | | | | | | |
| 10 | 10 | | | | | | | | | | |

## Trucos para llenarla más rápido

- Sumar 0 deja el número igual: 7 + 0 = 7.
- El orden no cambia el resultado: 3 + 5 = 5 + 3.
- Las casillas amarillas son los dobles: 4 + 4 = 8.